Централизованный экзамен. География: сборник тестов, 2024 год. Вариант 1.

При выполнении заданий с кратким ответом впишите в поле для ответа цифру, которая соответствует номеру правильного ответа, или число, слово, последовательность букв (слов) или цифр. Ответ следует записывать без пробелов и каких-либо дополнительных символов.

В заданиях, где нужно установить соответствие между двумя столбцами, ответ запишите в виде сочетания букв и цифр, соблюдая алфавитную последовательность букв левого столбца. Некоторые данные правого столбца могут использоваться несколько раз или не использоваться вообще. Например: А1Б1В4Г2.

Если вариант задан учителем, вы можете вписать или загрузить в систему ответы к заданиям с развернутым ответом. Учитель увидит результаты выполнения заданий с кратким ответом и сможет оценить загруженные ответы к заданиям с развернутым ответом. Выставленные учителем баллы отобразятся в вашей статистике.

1.

На картосхеме отмечен материк:

1) Африка 2) Австралия 3) Евразия 4) Южная Америка 5) Северная Америка

2.

Расстояние между объектами, измеренное на карте с помощью циркуля-измерителя, на местности равно:

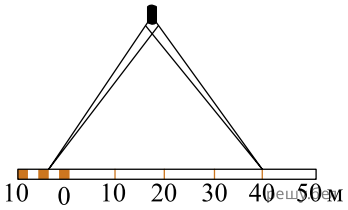

1) 40 м 2) 40 км 3) 44 м 4) 44 км 5) 420 км

3.

Географические координаты 20° с. ш. 20° в. д. имеет отмеченный на карте пункт:

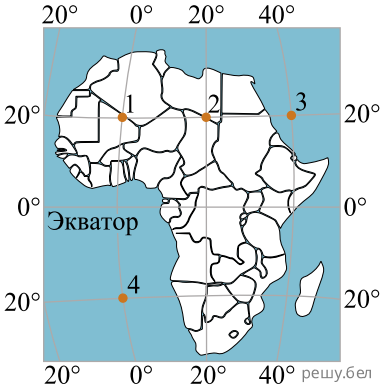

1) 1 2) 2 3) 3 4) 4 5) 5

4. В пределах Альпийско-Гималайского складчатого пояса расположены горы:

1) Кавказ 2) Анды 3) Уральские 4) Кордильеры
5) Антарктические Анды

5.
На карте точка расположена в пределах акватории:

1) Северного моря 2) Красного моря 3) Аравийского моря
4) Средиземного моря 5) Бенгальского залива

6.
Выберите ВЕРНОЕ утверждение в характеристике климатических показателей на основании предложенной климатограммы (для метеостанции Северного полушария):

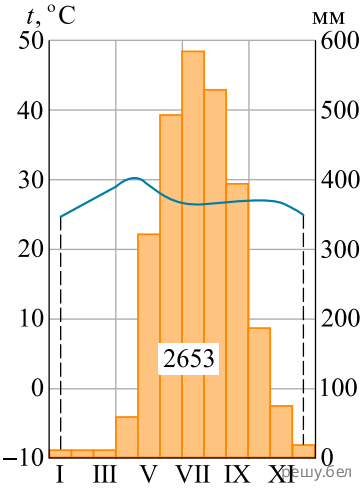

1) характерен зимний максимум осадков
2) наибольшее количество осадков выпадает в декабре
3) температуры воздуха в течение года составляют $+25\ldots+30°C$
4) выпадает около 600 мм осадков в год
5) климатограмма соответствует экваториальному типу климата

7. Деятельность государства, направленная на регулирование процессов воспроизводства населения, — это:

1) депопуляция 2) урбанизация 3) демографическая нагрузка
4) демографическая политика 5) демографический взрыв

8.
На карте выделено государство, столицей которого является город:

1) Варшава 2) Париж 3) Лондон 4) Берлин 5) Мадрид

9. Укажите государство с наиболее высоким естественным приростом населения:

1) США 2) Италия 3) Беларусь 4) Туркменистан
5) Великобритания

10. К исчерпаемым невозобновляемым природным ресурсам относится(-ятся):

1) энергия Солнца 2) биологические ресурсы 3) земельные ресурсы
4) водные ресурсы 5) топливные минеральные ресурсы

11.
Укажите общую характеристику для выделенных на карте государств:

1) федеративная форма политико-территориального устройства
2) монархическая форма правления
3) ведущие страны по добыче природного газа
4) ведущие страны — производители морских судов
5) страны — лидеры по поголовью овец

12. К техническим сельскохозяйственным культурам относится:

1) пшеница 2) ячмень 3) подсолнечник 4) просо 5) сорго

13.
На картосхеме отмечена тектоническая структура:

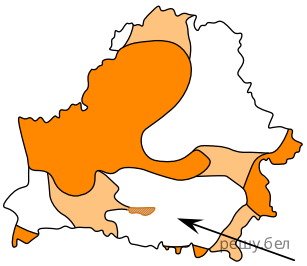

1) Жлобинская седловина 2) Припятский прогиб
3) Оршанская впадина 4) Украинский щит
5) Белорусская антеклиза

14.
Выберите пункт, отмеченный на картосхеме точкой с цифрой, с наибольшим годовым количеством осадков в Беларуси:

1) 1 2) 2 3) 3 4) 4
5) 5

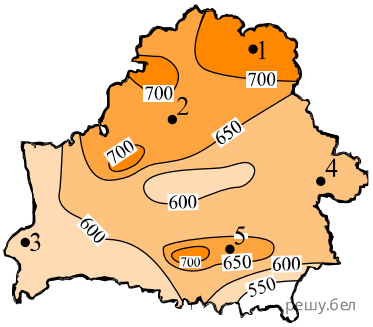

Годовое количество осадков (мм)

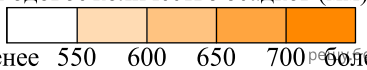

менее 550 600 650 700 более

Карта составлена по состоянию на 01.01.2018

15. Укажите сельскохозяйственную техническую культуру, которая занимает наибольшие посевные площади среди технических культур в Беларуси:

1) рапс 2) хлопчатик 3) подсолнечник 4) лен-долгунец 5) сахарная свекла

16.
На картосхеме отмечен промышленный центр:

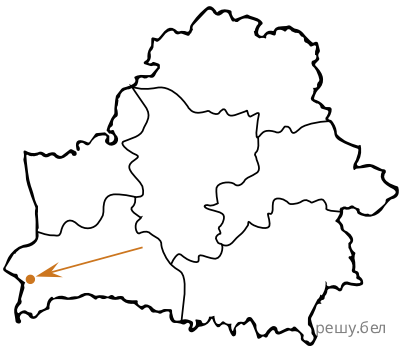

1) Минск 2) Брест 3) Витебск 4) Гродно 5) Гомель

17.
Назовите течение Мирового океана, отмеченное на картосхеме.

В бланк ответов запишите только название течения. Например: Аляскинское.

18. Укажите географические объекты, расположенные в Северном полушарии:

1) Гавайские острова;
2) озеро Чад;
3) водопад Игуасу;
4) вулкан Везувий;
5) Большой Водораздельный хребет.

Ответ запишите цифрами (порядок записи цифр не имеет значения). Например: 125.

19. Укажите условный знак, с помощью которого на плане местности обозначают линию электропередачи:

А)

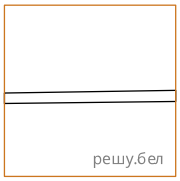

Б)

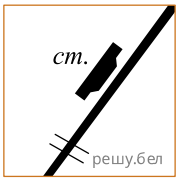

В)

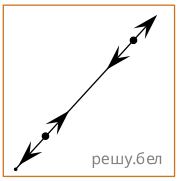

Г)

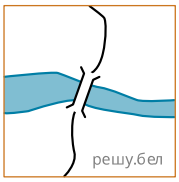

Д)

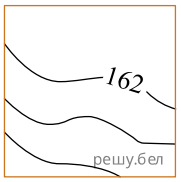

Ответ запишите буквой. Например: А.

20. Установите соответствие между названиями материков и типичными представителями их фауны, показанными на рисунках:

МАТЕРИКИ

А) Австралия
Б) Антарктида
В) Южная Америка

ПРЕДСТАВИТЕЛИ ФАУНЫ

1)

2)

3)

4)

5)

Ответ запишите в виде сочетания букв и цифр, соблюдая алфавитную последовательность букв. Помните, что не все представители фауны, показанные на рисунках, могут быть при этом использованы. Например: А2Б1В4.

21.

Выберите природный объект Евразии, обозначенный на картосхеме цифрой, для которого ВЕРНА характеристика:

Равнина на плите древней платформы.

Ее пересекает самая полноводная и самая протяженная река континента.

Ответ запишите цифрой. Например: 1.

22.

Выберите пункт, обозначенный на карте Южной Америки точкой с цифрой, который расположен в пределах распространения типа климата со следующей характеристикой:

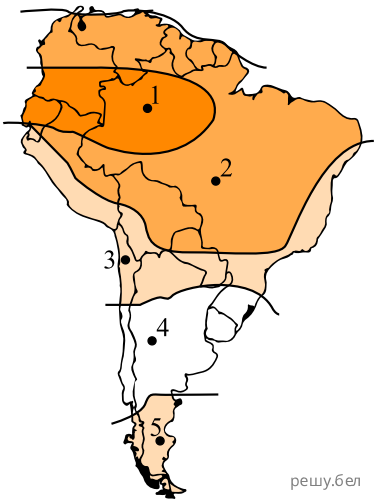

Формируется под влиянием одного типа воздушных масс.

Характеризуется равномерным ходом температур воздуха $(+26 \ldots +28^\circ\mathrm{C})$ и обильными осадками в течение года (2000–4000 мм в год).

Ответ запишите цифрой. Например: 1.

23.

Укажите ВЕРНОЕ утверждение в отношении природных зон Северной Америки, выделенных на карте:

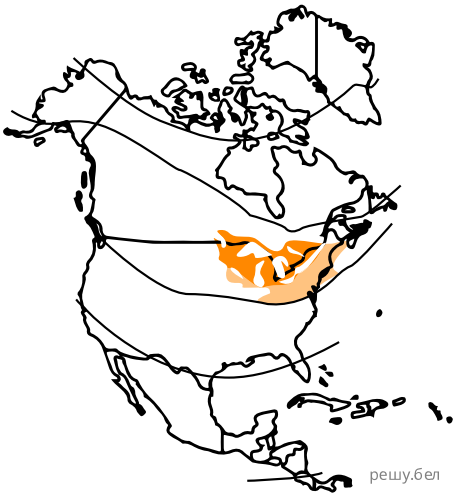

1) в течение года климат формируется под воздействием арктических воздушных масс;

2) выпадает наименьшее количество осадков на материке;

3) распространены почвы сероземы;

4) произрастают клен, липа, дуб, каштан, к ним примешиваются хвойные породы;

5) обитают броненосец, ягуар, крокодил.

Ответ запишите цифрой. Например: 1.

24. Прочитайте приведенный ниже текст, в котором пропущен ряд слов. Вставьте на места пропусков слова из предложенного списка, подходящие по смыслу.

Устойчивое ухудшение свойств почвы как среды обитания биоты, а также снижение ее плодородия в результате воздействия природных или антропогенных факторов — это А)_____. Под влиянием ветра и водных потоков происходит разрушение и снос верхних, наиболее плодородных горизонтов почвы — Б)_____. Одним из глобальных проявлений деградации почв является расширение площади пустынь — В)_____.	1) эрозия 2) засоление 3) заболачивание 4) деградация почвы 5) опустынивание 6) обезлесение

Выбирайте слова последовательно, мысленно вставляя их на места пропусков в нужной форме. Помните, что не все слова могут быть использованы для ответа. Каждое слово может быть использовано только один раз. Ответ запишите в виде сочетания букв и цифр, соблюдая алфавитную последовательность букв. Например: А2Б1В4.

25. Установите ЕДИНСТВЕННО ВЕРНОЕ соответствие:

Социально-экономический регион (по классификации ООН)	**Государства**
А) Северная Европа Б) Южная Европа В) Восточная Азия	1) Литва, Франция 2) Индия, Казахстан 3) Великобритания, Италия 4) Китай, Япония

Ответ запишите в виде сочетания буквы и цифры. Например: А1.

26. В характеристике современного мирового хозяйства ВЕРНЫМ является утверждение:

1) среди альтернативных источников производства электроэнергии ведущая роль принадлежит энергии приливов и отливов;
2) в региональной структуре добычи угля наибольшая доля принадлежит Северной Америке;
3) ведущим регионом по объемам выплавки чугуна и стали является Европа;
4) главной зерновой культурой по валовым сборам является пшеница;
5) в структуре грузооборота ведущее место принадлежит водному транспорту.

Ответ запишите цифрой. Например: 1.

27. В характеристике социально-экономического развития Африки ВЕРНЫМ является утверждение:

1) выделяется среди континентов наибольшей численностью населения;
2) максимальная плотность населения приходится на впадину Конго;
3) ЮАР выделяется среди стран континента крупными объемами добычи нефти и природного газа;
4) главными отраслями обрабатывающей промышленности многих стран континента являются пищевая и легкая промышленность;
5) главная зерновая культура африканского региона — рис.

Ответ запишите цифрой. Например: 1.

28. Прочитайте приведенный ниже текст, в котором пропущен ряд слов. Вставьте на места пропусков слова из предложенного списка, подходящие по смыслу.

Бразилия — крупное А)_____ по форме политико-территориального устройства государство. Для населения характерны сложный этнический состав и Б)_____. На В)_____ вырабатывается 90% электроэнергии	1) федеративное 2) унитарное 3) «ложная урбанизация» 4) депопуляция 5) ГЭС 6) АЭС

Выбирайте слова последовательно, мысленно вставляя их на места пропусков в нужной форме. Помните, что не все слова могут быть использованы для ответа. Каждое слово может быть использовано только один раз. Ответ запишите в виде сочетания букв и цифр, соблюдая алфавитную последовательность букв. Например: А2Б1В4.

29. Определите государство и его столицу по описанию:

Государство Северной Америки. Столичная агломерация насчитывает более 20 млн человек. Большая часть населения говорит на испанском языке. Среди верующих преобладают католики. Ведущая отрасль сельского хозяйства — растениеводство. Столица данного государства — ... .

В бланк ответов запишите только название столицы государства. Например: Минск.

30. В характеристике Китая ВЕРНЫМ является утверждение:

1) характерна низкая доля трудоспособного населения;
2) население равномерно размещено по территории страны;
3) в стране работает самая мощная в мире АЭС;
4) одна из главных отраслей машиностроения — станкостроение;
5) основу растениеводства составляет производство кормовых культур.

Ответ запишите цифрой. Например: 1.

31.
Укажите государство, отмеченное на карте цифрой, которому соответствует характеристика:

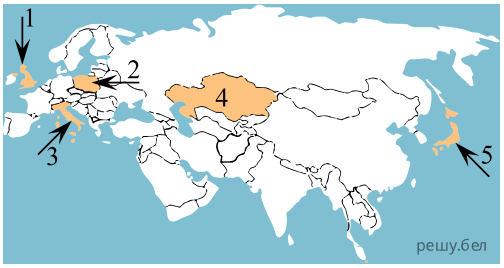

Унитарная монархия с хозяйством постиндустриального типа, расположенная на многочисленных островах. Зависимость от импорта сырья и ориентация промышленного производства на экспорт обусловили исключительную роль внешней торговли в экономике страны. Расположена одна из крупнейших по мощности АЭС мира.

Ответ запишите цифрой. Например: 1.

32. Укажите ОБЩИЕ ЧЕРТЫ в характеристике социально-экономического развития США и Канады:

1) унитарная форма политико-территориального устройства;
2) экономика постиндустриального типа;
3) большая часть электроэнергии вырабатывается на ТЭС;
4) страны входят в тройку мировых лидеров по добыче нефти;
5) Великие озера используются для осуществления торговли между странами.

Ответ запишите цифрами (порядок записи цифр не имеет значения). Например: 15.

33. Установите соответствие:

Характеристика государства	Государство
А) федеративное по форме политико-территориального устройства, входит в тройку стран с наибольшими объемами потребления энергии Б) федеративное по форме политико-территориального устройства, входит в тройку мировых лидеров по производству станков В) государство в составе Британского Содружества, средняя плотность населения одна из самых низких в мире	1) Бразилия 2) Германия 3) Индия 4) Австралийский Союз

Ответ запишите в виде сочетания букв и цифр, соблюдая алфавитную последовательность букв левого столбца. Помните, что не все данные правого столбца могут быть при этом использованы. Например: А2Б1В4.

34.

На карте Беларуси выделены реки, относящиеся к одному бассейну. Главная река из них имеет название ... .

В бланк ответов запишите только название реки. Например: Сож.

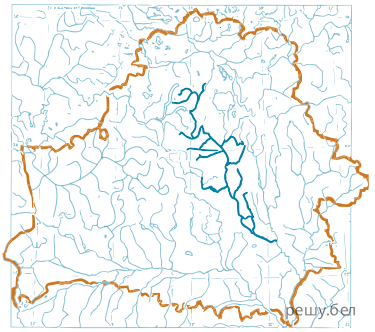

35.

Облако слов состоит из элементов — отдельных характеристик и названий географических объектов. Все элементы облака, кроме одного, относятся к Полесской физико-географической провинции. Определите «лишний» элемент, не характерный для указанной провинции.

В бланк ответов запишите выбранный элемент в виде слова или нескольких слов. Например: Припять.

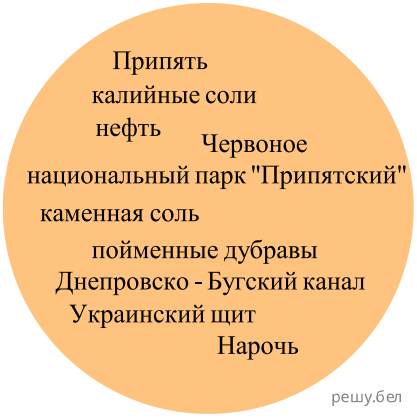

36. В характеристике промышленности Беларуси ВЕРНЫМ является утверждение:

1) горнодобывающая промышленность страны специализируется исключительно на добыче калийных солей;
2) около половины объема производимой в стране электроэнергии производится за счет альтернативных источников энергии;
3) основной объем продукции металлургии представлен сталью и готовым прокатом;
4) продукция промышленности строительных материалов производится исключительно для использования внутри страны;
5) отсутствует собственная сырьевая база для производства шелковых тканей из химических волокон.

Ответ запишите цифрой. Например: 1.

37.

Укажите административную область Беларуси, отмеченную на картосхеме цифрой, для которой ВЕРНА характеристика:

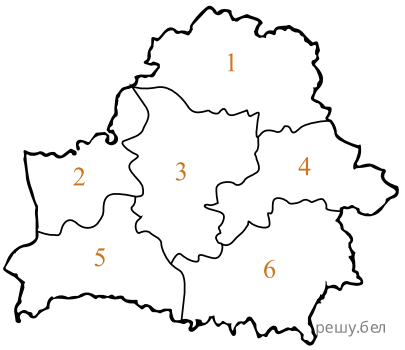

Наименьшая среди областей по площади. По территории области протекает река, имеющая наибольшую площадь бассейна среди рек, относящихся к бассейну Балтийского моря.

Ответ запишите цифрой. Например: 1.

38. Определите абсолютную высоту горы в метрах, если температура воздуха у ее подножия, расположенного на высоте 390 м над уровнем моря, составляет $+2^\circ\mathrm{C}$, а на ее вершине равна $-13^\circ\mathrm{C}$.

Ответ запишите цифрами в виде целого числа. Единицы измерения не указывайте. Например: 3000.